Leggi l'istogramma

Guarda le colonne e rispondi alle domande. L'altezza di ogni colonna dice quanti bambini hanno scelto quella risposta.

Nome: _____ Data: _____

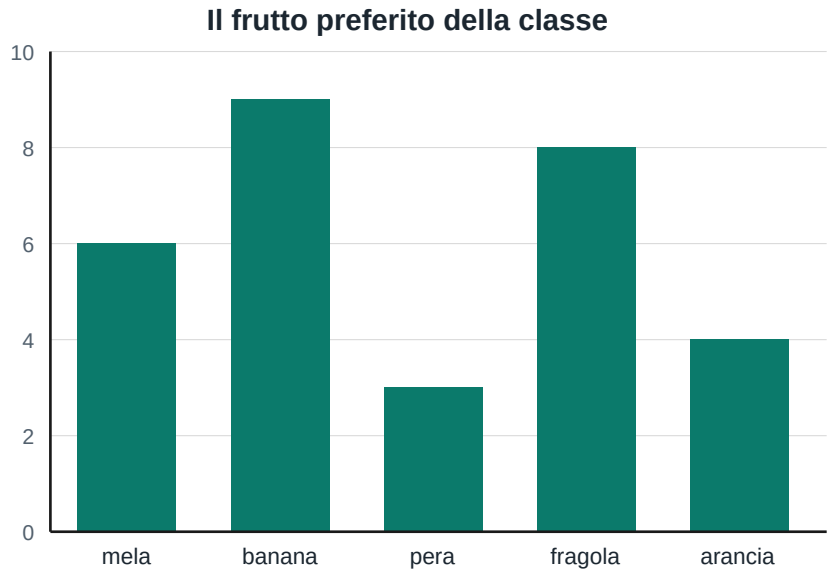

1. Quale risposta ha più voti? _____
2. Quale risposta ha meno voti? _____
3. Quanti bambini hanno scelto «banana»? _____
4. Quanti bambini hanno risposto in tutto? _____
5. Quanti voti in più ha «banana» di «pera»? _____

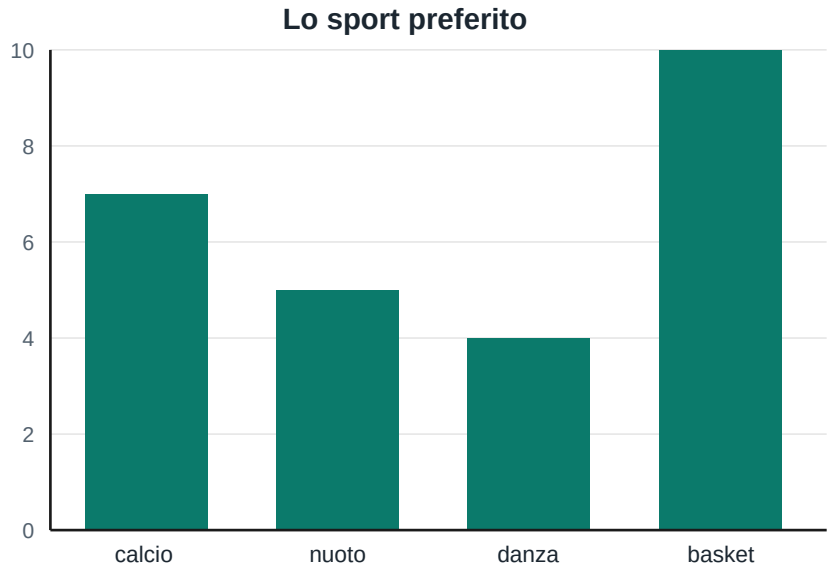

1. Quale risposta ha più voti? _____
2. Quale risposta ha meno voti? _____
3. Quanti bambini hanno scelto «nuoto»? _____
4. Quanti bambini hanno risposto in tutto? _____
5. Quanti voti in più ha «basket» di «danza»? _____

Soluzioni: Leggere l'istogramma

Le soluzioni di tutti gli esercizi della pagina 1.

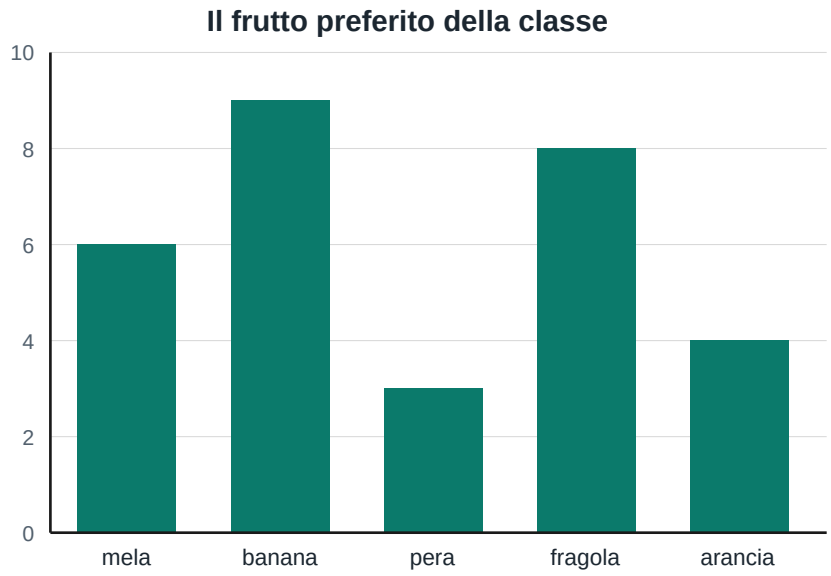

1. Quale risposta ha più voti? **banana**
2. Quale risposta ha meno voti? **pera**
3. Quanti bambini hanno scelto «banana»? **9**
4. Quanti bambini hanno risposto in tutto? **30**
5. Quanti voti in più ha «banana» di «pera»? **6**

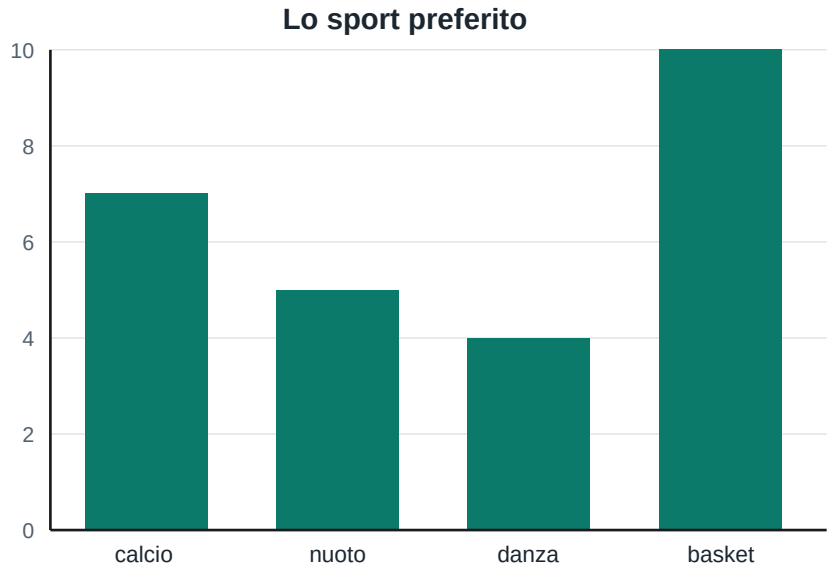

1. Quale risposta ha più voti? **basket**
2. Quale risposta ha meno voti? **danza**
3. Quanti bambini hanno scelto «nuoto»? **5**
4. Quanti bambini hanno risposto in tutto? **26**
5. Quanti voti in più ha «basket» di «danza»? **6**